تدريبات في الحساب والهندسة

الصف الثالث ابتدائي

جميع الحقوق محفوظة لموقع مُجَّمّع الرياضيات © math2012.com

مجموعة تمارين في الحساب والهندسة مبنية بحسب منهاج الرياضيات للصف الثالث

الموضوع	رقم الاسئلة
المبنى العشري : تحديد قيمة الرقم في العدد	1- 10
ترتيب الاعداد	11
الصفر كحافظ منزلة	12
كتابة الاعداد بالارقام والكلمات	13-15
وصف العدد بصور مختلفة	16-20
مستقيم الاعداد	21-24
الجمع والطرح	25-26
تقدير نتائج العمليات الحسابية	27-29
قانون التوزيع	30
مسائل كلامية في الجمع والطرح	31-33
مسائل كلامية في المقارنة	34-37
جداول الضرب	38
خصائص الصفر والواحد في الضرب والقسمة	39
الضرب في عشرات كاملة وفي مئات كاملة	40-41
تقريب الاعداد	42-47
دلائل القسمة على2 و 5 و 10	48
الضرب العمودي	49
القسمة	50,51,54
القسمة مع باقِ	52,53,55,56
ترتيب العمليات الحسابية	57

جميع الحقوق محفوظة لموقع مُجَّمّع الرياضيات © math2012.com

مسائل في الضرب	58
مسائل في القسمة , قسمة احتواء	59
مسائل في القسمة , قسمة الى اجزاء	60
مسائل ضرب وقسمة	61
مفهوم الكسر	63 , 62
مقارنة كسور	65 , 64
الزوايا	67 , 66
المثلثات	69 , 68
الاشكال الرباعية	70
وحدات القياس	71-74
قياس الزمن	75-77

جميع الحقوق محفوظة لموقع مُجَّمّع الرياضيات © math2012.com

اقرأ المُعطى جيدًا في كل تمرين وحله بحسب المطلوب!

1. مُعطى العدد 783 ، ما هي قيمة الرقم 8 في العدد المُعطى ؟

الجواب :_____

2. مُعطى العدد 965 ، ما هي قيمة الرقم 5 في العدد المُعطى ؟

الجواب :_____

3. مُعطى العدد 271 ، ما هي قيمة الرقم 2 في العدد المُعطى ؟

الجواب :_____

4. في العدد 67 الرقم 7 يمثل الآحاد والرقم 6 يمثل العشرات. ماذا سيمثل هذان الرقمان اذا اضفنا الرقم 0 عن يمين العدد 67 ؟

الجواب : _____

_____

5. أ) اكتب اعداد مختلفة من الارقام 3 , 7 , 8 :

_____

_____

ب) كم عددا مختلفا بنيتم ؟ _____

جميع الحقوق محفوظة لموقع مُجَّمّع الرياضيات © math2012.com

6. اكتب اعداد مختلفة من الارقام 3 , 0 , 8 :

_____

_____

ب) كم عددا مختلفا بنيتم ؟ _____

7. معطاه الارقام 4 , 7 , 5 :

أ) اكتب عددًا اكبر من 60 مستعملا رقمين فقط من الارقام المُعطاه:

الجواب: _____

ب)اكتب عددًا اصغر من 50 مستعملا رقمين فقط من الارقام المُعطاه:

الجواب: _____

8. اي عدد من الاعداد التالية قيمة الرقم 9 هي 900 ؟
(ضع X بجانب الجواب الصحيح)

- ☐ 2,859
- ☐ 3,941
- ☐ 9,768
- ☐ 5,097

جميع الحقوق محفوظة لموقع مُجَّمّع الرياضيات © math2012.com

9. اي عدد من الاعداد التالية قيمة الرقم 1 هي 10 ؟
(ضع X بجانب الجواب الصحيح)

- ☐ 7,184
- ☐ 4,031
- ☐ 1,562
- ☐ 819

10. اي عدد من الاعداد التالية قيمة الرقم 5 هي 5,000 ؟
(ضع X بجانب الجواب الصحيح)

- ☐ 1,506
- ☐ 3,952
- ☐ 5,470
- ☐ 2,885

11. اكمل ارقام مناسبة :

أ) 69__ < 569

ب) 486 < 5__4

ج) 603 > __60

د) 0__8 < 879

جميع الحقوق محفوظة لموقع مُجَّمّع الرياضيات © math2012.com

12. في اي عدد الرقم 0 يُمثل العشرات ؟
(ضع X بجانب الجواب الصحيح)

- ☐ 3,709
- ☐ 1,054
- ☐ 26,870
- ☐ 40,913

13. اكتب الاعداد التّالية بالكلمات :

أ) 4,807 _____

ب) 6,059 _____

14. اكتب الاعداد التّالية بالارقام :

أ) سبعة الاف وثلاث مئة وخمسة عشر _____

ب) الف وتسع مئة وثمانون _____

15. العدد **خمسة الاف وسبع مئة وثمانية** بالارقام هو :
(ضع X بجانب الجواب الصحيح)

- ☐ 5,807
- ☐ 5,078
- ☐ 5,708
- ☐ 5,087

جميع الحقوق محفوظة لموقع مُجَّمّع الرياضيات © math2012.com

16. اكتب العدد الملائم :

أ- 23 عشرة و 8 آحاد _____

ب- 3 آلاف و 12 مئة و 13 عشرة _____

ج- 7 مئات وَ 15 عشرة _____

د- 2 آلاف و 17 آحاد _____

17. اكمل :

أ) 854 = 800 + _____ + _____

ب) 1,927 = _____ + _____ + 20 + _____

ج) 5,063 =_____

18. اكمل المتواليات التالية :

أ) 750 , 760 , _____ , _____ , _____ , _____

ب) 347 , 447 , _____ , _____ , _____ , _____

ج) 867 , _____ , 869 , _____ , _____ , _____

19. خبزت سُعاد 263 رغيف خبز ، وضعت كل 10 ارغفة في كيس ، الى كم كيس تحتاج ؟

الجواب : _____

جميع الحقوق محفوظة لموقع مُجَّمّع الرياضيات © math2012.com

20. أ) في الدكان 457 حبة شوكلاطة ، وضع سمير كل 10 حبّات في علبة ، الى كم عُلبة يحتاج لوضع حبات الشوكلاطة ؟

الجواب : _____

ب) يريد سمير تخزين كل 100 حبة شوكلاطة في كرتونة كبيرة ، الى كم كرتونة كبيرة يحتاج سمير لوضع 457 حبة شوكلاطة ؟

الجواب : _____

21. عيّن العدد 4,620 على مستقيم الاعداد المُعطى (بالتقريب)



22. عيّن العدد 5,000 على مستقيم الاعداد المُعطى (بالتقريب)

23. اكتب عددا يقع على القطعة المشدّدة على مستقيم الاعداد: _____

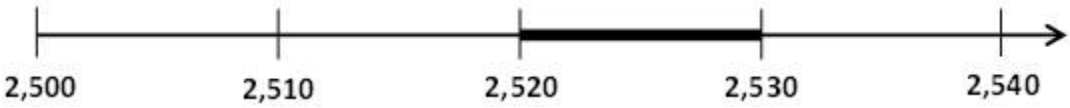

جميع الحقوق محفوظة لموقع مُجَّمّع الرياضيات © math2012.com

24. أي عدد من الاعداد التالية **لا يقع على القطعة المشدّدة** على مستقيم الاعداد المُعطى :

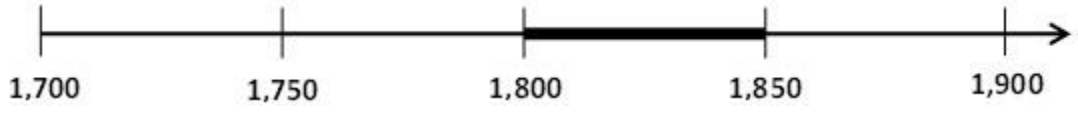

(ضع X بجانب الجواب الصحيح)

☐ 1,813

☐ 1,830

☐ 1,855

☐ 1,848

25. حل تمارين الجمع التالية :

أ) 3,547 + 431 = _____

ب) 2,985 + 1,725 = _____

ج) 5,061 + 4,837 = _____

جميع الحقوق محفوظة لموقع مُجَّمّع الرياضيات © math2012.com

26. حل تمارين الطرح التالية :

أ) 7,358 - 1,218 = _____

ب) 4,692 - 1,373 = _____

ج) 8,549 - 4,267 = _____

د) 6,725 - 3,549 = _____

هـ) 2,480 - 376 = _____

27. جد النتيجة التّقريبية للتمارين التالية :

أ) 1,709 + 485 + 98 ≈ _____

ب) 3,890 + 612 + 47 ≈ _____

ج) 1,920 - 730 ≈ _____

جميع الحقوق محفوظة لموقع مُجَّمّع الرياضيات © math2012.com

28. اكمل عددًا مناسبًا في المعادلات التّالية :

أ) 540 + 63 = 560 + _____

ب) 932 + 54 = 912 + _____

ج) 867 - 89 = 877 - _____

د) 556 - 76 = 526 - _____

29. مُعطى ان **400 + 375 = 775** ، حل التمارين التّالية مُعتمدًا على التمرين المُعطى :

أ) 399 + 375 = _____

ب) 373 + 400 = _____

ج) 402 + 377 = _____

د) 397 + 378 = _____

30. حل التمارين التالية بواسطة قانون التوزيع :

أ) 34 x 9 = ____ x 9 + ____ x 9 = ____ + ____ = _____

ب) 17 x 8 = ____ x 8 + ____ x 8 = ____ + ____ = _____

ج) 25 x 6 = ____ x 6 + ____ x 6 = ____ + ____ = _____

جميع الحقوق محفوظة لموقع مُجَّمّع الرياضيات © math2012.com

31. اشترى وليد كتابين دفع ثمنهما 76 شاقل جديد ، سعر الكتاب الأول 52 شاقل ، ما هو سعر الكتاب الثاني ؟

الحساب : _____

الجواب: _____

32. في الحفلة السنوية التي اقامها المركز التربوي اشترك 235 ولد و 187 بنت ، كم شخص اشترك في الحفلة ؟

الحساب : _____

الجواب: _____

33. في مدرسة الأمل تغيّب عن الدراسة 32 تلميذ وحضر الى المدرسة 379 تلميذ ، ما هو عدد تلاميذ المدرسة ؟

الحساب : _____

الجواب: _____

34. مع سماهر 135 شاقل ، ومع منال 88 شاقل ، بكم يزيد المبلغ الذي مع سماهر عن المبلغ الذي مع منال ؟

الحساب : _____

الجواب: _____

جميع الحقوق محفوظة لموقع مُجَّمّع الرياضيات © math2012.com

35. يوجد مع رواد 36 بنورة وهي اكثر بـ 17 بنورة عن تامر ، كم بنورة يوجد مع تامر؟

الحساب : _____

الجواب: _____

36. مشى غالب 1,257 متر وهي اكثر بـ 385 متر عن أحمد ، كم متر مشى أحمد؟

الحساب : _____

الجواب: _____

37. عدد سكان قرية الغزالي 8,964 نسمة ، وعدد سكان قرية الخوالي 5,738 نسمة ، بكم يقل عدد سكان قرية الخوالي عن قرية الغزالي؟

الحساب : _____

الجواب: _____

38. حل التمارين التّالية:

أ) 6 x 8 = _____

ب) 7 x _____ = 63

ج) _____ x _____ = 45

د) 36 : 9 = _____

هـ) 28 : _____ = 4

و) 30 : 6 = _____

جميع الحقوق محفوظة لموقع مُجَّمّع الرياضيات © math2012.com

39. حل التمارين التّالية :

أ) 9 x 1 = _____

ب) 1 x _____ = 7

ج) 6 x 0 = _____

د) _____ : 8 = 1

هـ) 10 : ____ = 10

و) 0 : 3 = _____

40. حل التمارين التّالية :

أ) 9 x 10 = _____

ب) 100 x _____ = 600

ج) 20 x 40 = _____

د) _____ : 100 = 15

هـ) 3 x 1,000 = _____

و) 1,000 : 50 = _____

41. حل المسائل التّالية:

أ) سافر تلاميذ مدرسة **"النور"** في الباصات حيث صعد الى كل باص 50 تلميذ ، كم تلميذ يتعلم في مدرسة **"النور"** اذا سافر كل التلاميذ في 7 باصات ؟

الجواب: _____

ب) في المصنع 100 كرتونة وفي كل كرتونة 40 كعكة ، كم كعكة يوجد في المصنع؟

الجواب: _____

ج) كم دقيقة يوجد في 7 ساعات ؟

الجواب: _____

د) وزن صندوق التفاح 20 كغم ، ما هو وزن 30 صندوق تفاح ؟

الجواب: _____

جميع الحقوق محفوظة لموقع مُجَّمّع الرياضيات © math2012.com

42. قرّب الأعداد التّالية الى **عشرات كاملة** :

أ) 47 ≈ _____ ب) 83 ≈ _____

ج) 75 ≈ _____ د) 166 ≈ _____

هـ) 312 ≈ _____ و) 598 ≈ _____

42. قرّب الأعداد التّالية الى **مئات كاملة** :

أ) 221 ≈ _____ ب) 693 ≈ _____

ج) 985 ≈ _____ د) 562 ≈ _____

هـ) 350 ≈ _____ و) 449 ≈ _____

43. قرّب الأعداد التّالية الى **مئات كاملة** :

أ) 1,439 ≈ _____ ب) 2,540 ≈ _____

ج) 6,877 ≈ _____ د) 4,500 ≈ _____

هـ) 8,341 ≈ _____ و) 9,627 ≈ _____

44. في يوم العلوم شارك تلاميذ من ثلاث مدارس ، من مدرسة النهضة 123 تلميذ ، من مدرسة النجاح 166 تلميذ ومن مدرسة العين 98 تلميذ ، بالاضافة الى 27 مرشد ومُعلم.
عدد الاشخاص اللذين شاركوا في يوم العلوم هو بالتقريب :
(ضع X بجانب الجواب الصحيح)

☐ 400 شخص

☐ 300 شخص

☐ 420 شخص

☐ 380 شخص

جميع الحقوق محفوظة لموقع مُجَّمّع الرياضيات © math2012.com

45. نتيجة التمرين 42 x 17 هي بالتقريب :

(ضع X بجانب الجواب الصحيح)

- ☐ 800
- ☐ 600
- ☐ 400
- ☐ 1,000

اشرح اجابتك :

_____

_____

46. هل يمكن ان تكون نتيجة التمرين 12 x 34 تساوي 600 ؟ نعم / لا

اشرح اجابتك :

_____

_____

_____

47. هل يمكن ان تكون نتيجة التمرين 1,600:9 تساوي 95 ؟ نعم / لا

اشرح اجابتك :

_____

_____

_____

جميع الحقوق محفوظة لموقع مُجَّمّع الرياضيات © math2012.com

48. في الصف الثالث أ يتعلم 35 تلميذ ،

أ) هل يمكن توزيع التلاميذ بحيث يجلس كل تلميذان على طاولة واحدة بدون ان يبقى تلميذ جالسًا لوحده؟ نعم / لا

علل اجابتك :

_____

ب) هل يمكن توزيع تلاميذ صف الثالث أ في درس الرياضة الى خمس مجموعات متساوية؟ نعم / لا

علل اجابتك :

_____

49. حل تمارين الضرب التالية :

أ) 3 x 123 = _____

ب) 5 x 217 = _____

ج) 76 x 4 = _____

د) 309 x 7 = _____

هـ) 88 x 6 = _____

و) 458 x 9 = _____

جميع الحقوق محفوظة لموقع مُجَّمّع الرياضيات © math2012.com

50. حل تمارين القسمة التالية :

أ) 35 : 5 = _____

ب) 18 : 3 = _____

ج) 28 : 7 = _____

د) 32 : 4 = _____

هـ) 42 : 6 = _____

و) 48 : 8 = _____

ز) 56 : 7 = _____

ح) 72 : 8 = _____

ط) 81 : 9 = _____

ي) 70 : 10 = _____

51. حل التّمارين التّالية :

أ) 64 : _____ = 8

ب) 21 : _____ = 3

ج) 24 : _____ = 6

د) 30 : _____ = 5

هـ) 45 : _____ = 5

و) _____ : 7 = 9

ز) _____ : 9 = 4

ح) _____ : 10 = 5

ط) _____ : 6 = 9

ي) _____ : 5 = 8

52. حل تمارين القسمة مع باقٍ التالية :

أ) 34 : 5 = _____ ( )

ب) 31 : 4 = _____ ( )

ج) 25 : 8 = _____ ( )

د) 40 : 6 = _____ ( )

هـ) 45 : 7 = _____ ( )

و) 55 : 9 = _____ ( )

ز) 82 : 10 = _____ ( )

ح) 20 : 7 = _____ ( )

ط) 29 : 3 = _____ ( )

ي) 17 : 2 = _____ ( )

جميع الحقوق محفوظة لموقع مُجَّمّع الرياضيات © math2012.com

53. حل تمارين القسمة مع باقٍ التالية :

أ) 37 : _____ = 4 (5)
ب) 48 : _____ = 5 (3)
ج) 26 : _____ = 8 (2)
د) 15 : _____ = 2 (3)
هـ) 19 : _____ = 4 (3)
و) 51 : _____ = 6 (3)
ز) 59 : _____ = 6 (5)
ح) 65 : _____ = 9 (2)
ط) 77 : _____ = 9 (5)
ي) 83 : _____ = 8 (3)

54. حل تمارين القسمة التالية (يمكن استعمال قانون التوزيع في القسمة) :

أ) 42 : 3 = _____
ب) 38 : 2 = _____
ج) 75 : 5 = _____
د) 56 : 4 = _____
هـ) 96 : 6 = _____
و) 84 : 7 = _____
ز) 104 : 8 = _____
ح) 126 : 9 = _____
ط) 39 : 3 = _____
ي) 91 : 7 = _____

55.

أ) كم يجب ان نضيف على العدد 57 لكي يُقسَم على 2 ؟ _____

ب) كم يجب ان نضيف على العدد 57 لكي يُقسَم على 5 ؟ _____

ج) كم يجب ان نضيف على العدد 57 لكي يُقسَم على 10 ؟ _____

جميع الحقوق محفوظة لموقع مُجَّمّع الرياضيات © math2012.com

.56

أ) هل حاصل جمع العددين = 34 + 50 يُقسَم على 2 ؟ _____

اشرح اجابتك :

_____

ب) هل حاصل جمع العددين = 34 + 50 يُقسَم على ب ؟ _____

اشرح اجابتك :

_____

.57 حل التمارين التالية بحسب افضليات ترتيب العمليات الحسابية :

أ) 23 + 37 - 10 = _____

ب) 3 x 8 : 2 = _____

ج) 5 x 7 + 4 = _____

د) 6 x 8 - 15 = _____

هـ) 55 - 5 x 4 = _____

و) 66 - 36 : 6 = _____

ز) 35 : 5 + 2 = _____

ح) (28 + 12) : 4 = _____

ط) (50 - 34) : 8 = _____

ي) (27 + 33 - 10) : 5 = _____

جميع الحقوق محفوظة لموقع مُجَّمّع الرياضيات © math2012.com

58. حل المسائل التالية :

أ) طول ضلع مُسدس مُنتظم هو 9 سم ، ما هو محيط المُسدّس ؟

الحساب : _____

الجواب: _____

ب) وزن كيس مسليات صغير من نوع "بامبا" هو 15 غرام ، ما هو وزن 7 اكياس مُسليات "بامبا" ؟

الحساب : _____

الجواب: _____

ج) يحتاج العامل في المكدونالد الى 3 دقائق لتحضير الوجبة ، الى كم دقيقة يحتاج لتحضير 25 وجبة؟

الحساب : _____

الجواب: _____

د) في كل كيس مُلبس يوجد 8 حبّات مُلبس ، كم حبة مُلبس يوجد في 6 اكياس؟

الحساب : _____

الجواب: _____

هـ) سعر الثوب المدرسي 23 ش.ج. اشترت الأم 5 ثياب ، كم شاقلا دفعت ثمنا للثياب ؟

الحساب : _____

الجواب: _____

و) في الملعب 4 فرق وفي كل فرقة 8 لاعبات ، كم لاعبة يوجد في الملعب ؟

الحساب : _____

الجواب: _____

جميع الحقوق محفوظة لموقع مُجَّمّع الرياضيات © math2012.com

59. حل المسائل التالية :

أ) وزّعت المُعلمة 24 قلم تلوين على تلاميذ المجموعة ، حصل كل تلميذ على 3 اقلام ، كم تلميذ كان في المجموعة ؟

الحساب :

الجواب: _____

ب) وزّعت الأم 45 كعكة صغيرة على المشاركين في حفلة عيد الميلاد ، حصل كل مُشارك على 5 كعكات ، كم مُشارك كان في الحفلة ؟

الحساب :

الجواب: _____

ج) قسّم الأب مبلغ 40 شاقل جديد على ابنائه ، حصل كل واحد من الابناء على 10 شواقل جديدة ، كم ابنـًا يوجد للأب ؟

الحساب : _____

الجواب: _____

60. حل المسائل التالية:

أ) وزّع المُدير ساعات العمل المكونة من 18 ساعة بالتساوي على عماله الثلاثة ، كم ساعة يجب ان يعمل كل عامل ؟

الحساب : _____

الجواب: _____

ب) وزعت سلوى 28 بالونـًا على 7 مشاركات بالتساوي ، على كم بالونـًا حصلت كل واحدة من المُشاركات ؟

الحساب : _____

الجواب: _____

جميع الحقوق محفوظة لموقع مُجَّمّع الرياضيات © math2012.com

ج) وزّع المُرشد 48 بطاقة على ستة مشاركين بالتساوي ، على كم بطاقة حصل كل واحد من المشاركين؟

الحساب : _____

الجواب: _____

61. حل المسائل التّالية :

أ) مُحيط مُربّع مُعطى هو 24 سم ، ما هو طول المُربّع المُعطى؟

الحساب : _____

الجواب: _____

ب) مساحة غرفة صالون مُستطيلة الشكل هي 54 م^2 ، ما هي أطوالها اذا علمت ان احد أطوالها هو 6م ؟

الحساب : _____

الجواب: _____

ج) في موقف السيارات 7 رفوف وكل رف يتسع الى 7 سيارات ، الى كم سيارة يتسع موقف السيارات؟

الحساب : _____

الجواب: _____

د) في كل ورقة طوابع يوجد 12 طابعا ، اشترت منال 5 ورقات طوابع ، كم طابعًا اصبح مع منال ؟

الحساب : _____

الجواب: _____

جميع الحقوق محفوظة لموقع مُجَّمّع الرياضيات © math2012.com

62. اكتب الكسر المناسب للجزء المُلوّن في كل شكل :

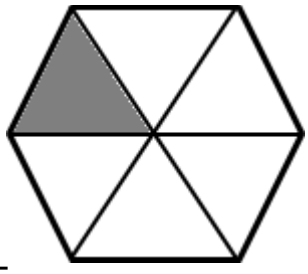

_____

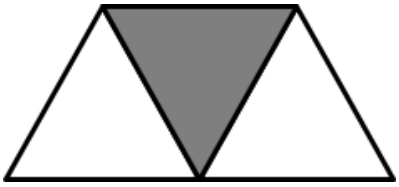

_____

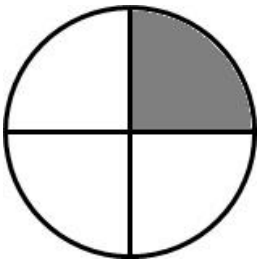

_____

_____

63. لون $\frac{1}{5}$ النجوم التالية :

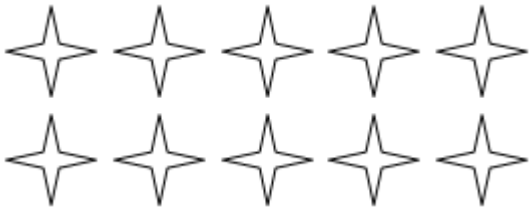

كم نجمة لوّنت ؟ _____

64. اكلت روان $\frac{1}{6}$ البيتسا ، بينما اكلت سوار $\frac{1}{8}$ البيتسا. من أكلت أكثر روان أم سوار ؟

الجواب : _____

علل اجابتك :

_____

_____

جميع الحقوق محفوظة لموقع مُجَّمّع الرياضيات © math2012.com

65. اكتب ثلاثة كسور اصغر من $\frac{1}{2}$: _____

66. افحص واكتب في زوايا المضلعات التّالية : **ح** (حادة) **ق** (قائمة) **م** (منفرجة)

67. أ) ارسم **زاوية حادة** بحيث يكون رأس الزاوية في النقطة المؤكّدة :

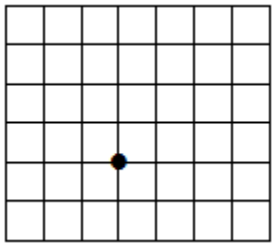

ب) اكمل الشكل لتحصل على **زاوية قائمة** :

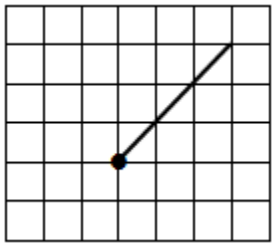

جميع الحقوق محفوظة لموقع مُجَّمّع الرياضيات © math2012.com

.68

أ) ارسم في اللوحة التالية مثلث **حاد الزوايا** بحيث تكون رؤوسه على النقاط المؤكدة :

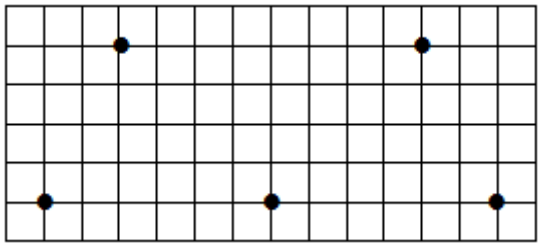

ب) ارسم في اللوحة التالية مثلث **قائم الزاوية** بحيث تكون رؤوسه على النقاط المؤكدة :

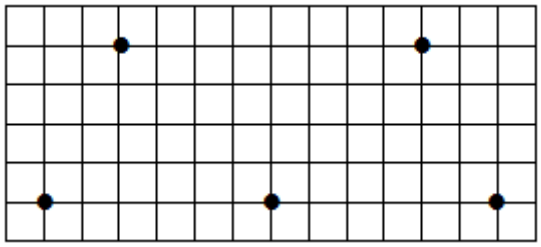

ج) ارسم في اللوحة التالية مثلث **مُنفرج الزاوية** بحيث تكون رؤوسه على النقاط المؤكدة :

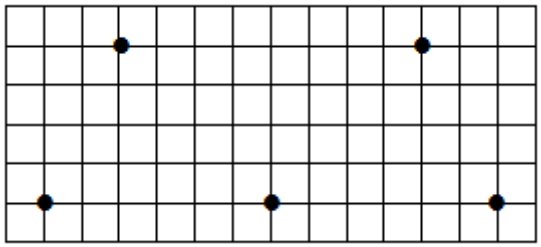

جميع الحقوق محفوظة لموقع مُجَّمّع الرياضيات © math2012.com

69 . اكتب صح او خطأ بجانب كل جُملة :

أ) يوجد مثلث قائم الزاوية وهو متساوي الاضلاع ايضًا. _____
ب) في مثلث متساوي الساقين يوجد زاويتان متساويتان. _____
ج) في مثلث متساوي الاضلاع كل الزوايا حادة. _____
د) يوجد مثلث فيه زاويتان منفرجتان. _____
هـ) يوجد مثلث متساوي الساقين وهو قائم الزاوية ايضًا. _____
و) يوجد مثلث مُختلف الاضلاع كل زواياه حادة. _____

70. أ) اكمل الشكل التالي لتحصل على متوازي الاضلاع:

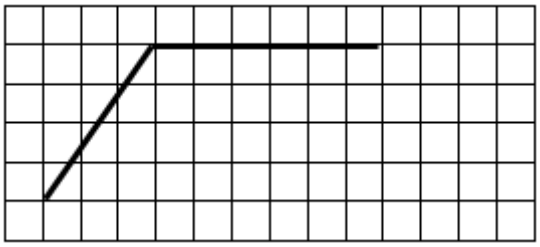

ب) اكمل الشكل التالي لتحصل على شبه مُنحرف:

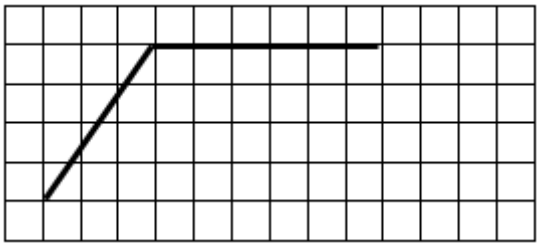

ج) هل يمكن اكمال الشكل التالي للحصول على **مُستطيل ؟ نعم / لا**

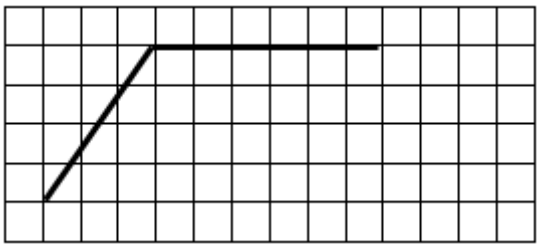

علل اجابتك : _____

_____

جميع الحقوق محفوظة لموقع مُجَّمّع الرياضيات © math2012.com

71. ارتفاع باب غرفة النوم هو: (ضع X بجانب الجواب الصحيح)

- ☐ 120 سنتيمتر
- ☐ 220 سنتيمتر
- ☐ 3 متر
- ☐ 2 كيلومتر

72. طول الممحاة يمكن ان يكون : (ضع X بجانب الجواب الصحيح)

- ☐ 30 سنتيمتر
- ☐ 3 متر
- ☐ 3 مليمتر
- ☐ 3 سنتيمتر

73. البُعد بين مدينتي حيفا وتل ابيب هو تقريبًا :

- ☐ 90 كيلومتر
- ☐ 90 مليمتر
- ☐ 90 متر
- ☐ 90 سنتيمتر

جميع الحقوق محفوظة لموقع مُجَّمّع الرياضيات © math2012.com

74. وزن الدجاجة يمكن ان يكون :

- ☐ 30 كيلوغرام
- ☐ 30 غرام
- ☐ 3 كيلوغرام
- ☐ 300 غرام

75. الساعة الان هي 12:55 بعد الظهر كم ستكون الساعة بعد رُبع ساعة ؟

الجواب: _____

76. الساعة الان هي 9:35 صباحا ، كم ستكون الساعة بعد 90 دقيقة؟

الجواب: _____

77. الى اي ساعة من الوقت تُشير كل واحدة من الساعات التالية ؟

الجواب: _____

الجواب: _____

جميع الحقوق محفوظة لموقع مُجَّمّع الرياضيات © math2012.com